Kode Naskah Soal: **967**

MATA UJIAN : EKONOMI, SEJARAH, GEOGRAFI DAN IPS TERPADU
TANGGAL UJIAN : 1 MARET 2009
WAKTU : 90 MENIT
JUMLAH SOAL : 75

Keterangan : Mata Ujian EKONOMI nomor 1 sampai nomor 20
Mata Ujian SEJARAH nomor 21 sampai nomor 40
Mata Ujian GEOGRAFI nomor 41 sampai nomor 60
Mata Ujian IPS TERPADU nomor 61 sampai nomor 75

EKONOMI

*Gunakan **Petunjuk A** dalam menjawab soal nomor 1 sampai nomor 11*

1. Ketika kita mencoba untuk menganalisis permintaan terhadap jasa Kereta Api pada saat harga tiketnya naik, maka diasumsikan bahwa harga tiket pesawat tidak berubah. Asumsi ini dalam istilah ekonomi disebut sebagai …

   (A) *Ceteris paribus*
   (B) *Substitution Effect*
   (C) *Scarcity*
   (D) *Price stability*
   (E) *Opportunity Cost*

2. John Maynard Keynes berpendapat bahwa salah satu cara memperbaiki keadaan ekonomi pada saat depresi adalah dengan …

   (A) mengurangi peranan pemerintah, dengan menstimulir penawaran
   (B) mengurangi peranan pemerintah, dengan menstimulir permintaan
   (C) memasukkan peranan pemerintah, dengan menstimulir penawaran
   (D) memasukkan peranan pemerintah, dengan menstimulir permintaan
   (E) hanya mengandalkan metode deduktif, tanpa menggunakan metode induktif

3. Perhatikan tabel berikut ini:

I	II	III	IV	V
IFC	ASEM	ILO	AFTA	NAFTA
WTO	APEC	WHO	MEE	NATO

   Dari tabel di atas yang termasuk kerja sama regional adalah nomor …

   (A) I
   (B) II
   (C) III
   (D) IV
   (E) V

4. Makin buruk distribusi pendapatan di sebuah negara, maka nilai koefisien Gini …

   (A) lebih besar dari satu
   (B) makin mendekati satu
   (C) makin kecil
   (D) makin mendekati nol
   (E) tidak terpengaruh

5. Pada tahun 1950, Pemerintah RI pernah melakukan kebijakan yang dikenal dengan kebijakan gunting Sjafrudin, yaitu uang yang nilainya Rp 5,00 ke atas nilainya dipotong 50%. Hal ini merupakan kebijakan moneter yang dinamakan …

   (A) kebijakan kredit selektif
   (B) kebijakan uang ketat
   (C) kebijakan sanering
   (D) kebijakan cadangan kas
   (E) politik diskonto

6. Perhatikanlah kurva penawaran berikut ini:

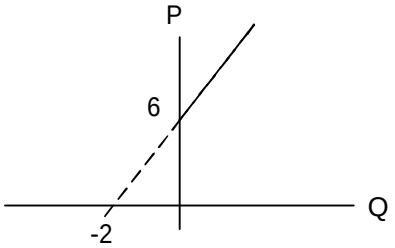

Fungsi penawaran dari kurva tersebut adalah …

(A) P = –2Q + 20
(B) P = 2Q + 20
(C) P = 3Q + 6
(D) –P = 3Q – 6
(E) P = 3Q – 6

7. Kesediaan produsen untuk mengorbankan faktor produksi yang satu demi menambah penggunaan faktor produksi yang lain dalam rangka menambah penggunaan faktor produksi pada isokuan yang sama disebut sebagai …

(A) *Marginal Rate of Technical Substitution*
(B) *Law of Diminishing Return*
(C) *Opportunit Cost*
(D) *Constant Return to Scale*
(E) *Isoclin*

8. Manakah yang termasuk dalam pendapatan asli daerah?

(A) Dana Perimbangan.
(B) Dana Alokasi Umum
(C) Pinjaman daerah
(D) Dana Darurat
(E) Penjualan aset tetap Daerah

9. Suatu perusahaan memproduksi 7 unit output dengan *average total cost* sebesar Rp15.000,00. Agar mampu berproduksi perusahaan harus mengeluarkan *fixed cost* sebesar Rp35.000,00. Maka, besarnya *average variable cost* adalah …

(A) Rp 5.000,00
(B) Rp10.000,00
(C) Rp15.000,00
(D) Rp20.000,00
(E) Rp25.000,00

10. Berikut ini adalah data keuangan pada tahun 2007 dari PT Jaya Selalu:

· Penjualan bersih	Rp43.500.000
· Beban administrasi dan penjualan	Rp 7.200.000
· Laba sebelum pajak	Rp 9.600.000
· Persediaan awal	Rp11.500.000
· Persediaan akhir	Rp14.250.000

Hitung pembelian bersih PT. Jaya Selalu pada tahun tersebut!

(A) Rp39.050.000
(B) Rp36.650.000
(C) Rp29.450.000
(D) Rp26.700.000
(E) Rp23.950.000

11. Berikut ini adalah data-data keuangan yang dimiliki PT. Terang Bulan tahun 2007:

· Persediaan 1 Januari 2007	Rp12.500.000
· Pembelian	Rp34.000.000
· Retur pembelian	Rp 6.000.000
· Potongan pembelian	Rp 4.500.000
· Retur penjualan	Rp 3.000.000
· Potongan penjualan	Rp 1.500.000
· Persediaan 31 Desember 2007	Rp 9.300.000

Berdasarkan data-data tersebut di atas, maka HPP PT. Terang Bulan untuk tahun 2007 adalah …

(A) Rp37.200.000
(B) Rp26.700.000
(C) Rp25.200.000
(D) Rp23.700.000
(E) Rp22.200.000

*Gunakan **Petunjuk B** dalam menjawab soal nomor 12 sampai nomor 16*

12. Kegiatan perikanan laut merupakan kegiatan produksi di bidang agraris.

SEBAB

Aktivitas ekstraktif adalah aktivitas yang dilakukan dalam mengambil sumber daya alam langsung dari alam tanpa adanya proses budidaya.

13. Apabila *koefisien Gini* dari suatu *kurva Lorenz* di suatu negara adalah 0,05, maka dapat kita katakan bahwa di negara tersebut tidak terjadi ketimpangan distribusi pendapatan.

SEBAB

Koefisien Gini mendekati nol berarti pendapatan makin merata.

14. Konsumsi dapat dipengaruhi oleh tingkat bunga deposito.

SEBAB

Jika tingkat bunga deposito naik, maka deposito masyarakat akan cenderung naik dan konsumsi turun.

15. Secara matematis hasil perhitungan koefisien elastisitas permintaan adalah negatif.

SEBAB

Perubahan variabel harga berbanding terbalik dengan perubahan variabel jumlah barang yang diminta.

16. Hukum *diminshing return* adalah hukum yang menyatakan bahwa jika faktor produksi variabel ditambah terus-menerus, sedangkan faktor produksi tetapnya tidak bertambah, maka jumlah produksi akan semakin meningkat.

SEBAB

Pada hukum *diminishing return*, faktor produksi tanah tergolong sebagai faktor tetap.

*Gunakan **Petunjuk C** dalam menjawab soal nomor 17 sampai nomor 20*

17. Seseorang menjadikan bangunan gedung miliknya sebagai kantor untuk perusahaannya. Tentunya, pemilik gedung memiliki *opportunity cost* berupa …

(1) kesempatan untuk disewakan
(2) harga jual gedung
(3) kesempatan untuk dibangun rumah / apartemen
(4) biaya pemeliharaan gedung

18. Cara untuk meningkatkan pemerataan distribusi pendapatan adalah dengan …

(1) kebijakan Raskin (Beras untuk orang Miskin)
(2) memberlakukan pajak penghasilan yang progresif
(3) subsidi BBM (Bahan Bakar Minyak)
(4) penjaminan Pemerintah atas KUR (Kredit Usaha Rakyat)

19. Perhatikan kurva berikut:

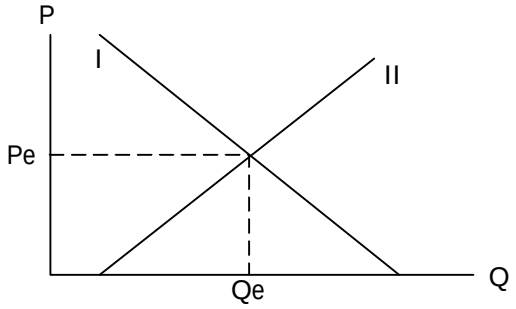

Jika kurva kesimbangan pasar suatu komoditas digambarkan oleh grafik di atas dimana P adalah jumlah harga dan Q adalah kuantitas barang, maka pernyataan berikut ini yang BENAR adalah …

(1) Fungsi penawaran digambarkan oleh garis dua
(2) Jika pemerintah mengenakan cukai terhadap komiditas tersebut maka kuantitas barang keseimbangan setelah dikenakan cukai lebih kecil dari Qe
(3) Garis ke dua (II) akan bergeser ke atas, jika dikenakan pajak per unit
(4) Harga keseimbangan setelah dikenakan cukai akan naik

20. Dari persamaana-persamaan berikut ini yang merupakan fungsi penawaran adalah …

(1) $P = -120Q + 20$
(2) $30P - 90Q - 70 = 0$
(3) $2P + 20Q = 20$
(4) $-3P + 12Q = 30$

SEJARAH

*Gunakan **Petunjuk A** dalam menjawab soal nomor 21 sampai nomor 30*

21. Perang Dunia I yang terjadi dari tahun 1914 – 1918 dipicu oleh peristiwa yang terjadi di wilayah Balkan, yaitu …

    (A) penyerbuan Serbia atas Serajevo
    (B) pembunuhan putra mahkota Austria di Serajevo
    (C) serangan Jerman terhadap wilayah Balkan
    (D) serangan Yunani atas Balkan
    (E) serangan Turki atas Balkan

22. Pada tanggal 27 Desember 1949 Belanda secara *de jure* mengakui kemerdekaan Negara Indonesia dalam bentuk …

    (A) Pemerintahan Federal
    (B) Pemerintahan PDRI
    (C) Negara kesatuan Republik Indonesia
    (D) pemerintahan BFO
    (E) Negara RIS (Republik Indonesia Serikat)

23. Sekolah-sekolah masa kolonial berikut yang dapat dinikmati oleh rakyat biasa adalah …

    (A) Volkschool
    (B) MULO
    (C) AMS
    (D) HBS
    (E) Kweekschool

24. Beberapa inti cerita mengenai terjadinya suatu tempat, atau cerita-cerita rakyat di Indonesia ada yang memiliki bentuk yang hampir serupa satu dengan lainnya. Inti cerita dari terbentuknya Gunung Tangkuban Perahu sejajar atau hampir serupa dengan cerita terbentuknya …

    (A) Gunung Gede
    (B) Candi Dieng
    (C) Gunung Merapi
    (D) Candi Prambanan
    (E) semuanya benar

25. Masyarakat Indonesia pada masa perundagian telah mengenal aturan pembagian kerja, karena …

    (A) mereka telah hidup menetap
    (B) merupakan masyarakat dengan kehidupan *food producing*
    (C) teknologi perundagian memerlukan tenaga yang memiliki keahlian khusus
    (D) budaya undagi dapat diproduksi oleh masyarakat yang telah maju
    (E) hidup dalam kelompok-kelompok suku

26. Kerajaan di Indonesia yang bercorak Budha dan menjadi pusat penyebaran agama Budha bagi kawasan Asia Tenggara adalah …

    (A) Majapahit
    (B) Melayu
    (C) Kutai
    (D) Sriwijaya
    (E) Tarumanegara

27. Dalam Perang perebutan tahta (suksesi) Mataram pada awal abad ke-18 (1705), Pangeran Puger berhasil mendirikan dinasti baru yang menggeser kekuasaan Amangkurat II, yaitu …

    (A) Amangkurat III
    (B) Hamengkubuwono
    (C) Paku Buwono
    (D) Paku Alam
    (E) Mangkubumi

28. Pada tanggal 13 Desember 1957, PM. Djuanda menyatakan deklarasi yang dikenal “Deklarasi Djuanda”, isi pokok deklarasi tersebut adalah …

    (A) persatuan partai-partai politik
    (B) deklarasi partai pemenng pemilu
    (C) deklarasi keamanan Indonesia
    (D) deklarasi Berdikari
    (E) pernyataan bahwa laut antara pulau-pulau di seluruh perairan Indonesia merupakan wilayah integral RI

29. Demokrasi Terpimpin di Indonesia yang dicetuskan dalam dekade 1950-an merupakan pengejawantahan dari …

    (A) penyelenggaraan Pemilu Pertama pada tahun 1955
    (B) ditumpasnya pemberontakan DI/TII
    (C) dicanangkannya Dwikora oleh presiden soekarno
    (D) dikeluarkannya Dekrit Presiden RI 5 Juli 1959
    (E) pengangkatan soekarno sebagai presiden seumur hidup

30. Pemerintah Indonesia menyadari pentingnya pemeliharaan lingkungan hidup untuk Pembangunan Berkelanjutan. Untuk itu pemerintah menuangkannya dalam bentuk perundang-undangan. Undang-undang mengenai Pembangunan Berkelanjutan tertuang dalam …

    (A) Undang-undang No 23 Tahun 2000
    (B) Undang-undang No 32 Tahun 2000
    (C) Undang-undang No 23 Tahun 1997
    (D) Undang-undang No 13 Tahun 1997
    (E) Undang-undang No 32 Tahun 1997

*Gunakan **Petunjuk B** dalam menjawab soal nomor 31 sampai nomor 35*

31. Konsep Nasakom pada masa Demokrasi Terpimpin merupakan suatu penyimpangan ideologi negara RI.

    SEBAB

    Nasakom bertentangan dengan dasar Negara RI Pancasila.

32. Konflik pusat dan daerah terjadi pada masa tahun 1950-an berimbas pada konflik bersenjata.

    SEBAB

    Upaya rekonsilisasi pernah dilakukan oleh PM. Djuanda untuk mengatasi konflik politik diantara elit partai dan militer dalam forum musyawarah nasional 1957.

33. Pada masa pemerintahan Gubernur Jendral Van den Bosch, pemungutan pajak dilakukan dalam bentuk uang.

    SEBAB

    Penggunaan ekonomi uang di pedalaman Jawa pada masa Sistem Tanam Paksa sudah cukup pesat.

34. Bangkitnya semangat nasionalisme dan anti monarki merupakan inti dari gerakan revolusi Perancis.

    SEBAB

    Banyak negara tetangga Perancis yang takut terhadap Revolusi Perancis akan meruntuhkan sistem monarkinya, sehingga negara-negara tersebut seperti Prusia, Austria, Rusia, dan Sardinia menyatakan perang kepada Perancis.

35. Masalah Kamboja menjadi semakin kompleks dengan adanya campur tangan pihak-pihak tertentu seperti RRC dan Vietnam.

    SEBAB

    Penyelesaian masalah Kamboja di lakukan di Jakarta Informal Meeting (JIM) pada tahun 1988 di kota Bandung.

*Gunakan **Petunjuk C** dalam menjawab soal nomor 36 sampai nomor 40*

36. Setelah PD II berakhir, muncul dua kekuatan besar dunia yang saling bersaing dan bertentangan. Dua kekuatan itu adalah …

    (1) Amerika Serikat
    (2) Perancis
    (3) Uni Soviet
    (4) Inggris

37. Pada bulan Februari tahun 1957 Presiden Soekarno memanggil pejabat sipil dan militer beserta pimpinan parpol ke Istana Merdeka. Dalam pertemuan itu untuk pertama kalinya Soekarno mengajukan konsepsi yang berisi …

    (1) dibentuk Kabinet Gotong Royong terdiri dari wakil semua partai ditambah golongan fungsional
    (2) pembentukan Kabinet Juanda
    (3) dibentuk Dewan Nasional
    (4) pembentukan Trikora

38. Kebijakan ekonomi liberal yang berlaku sejak 1870 memunculkan banyak perkebunan swasta, yang berakibat …

    (1) munculnya perkebunan swasta diseluruh Hindia Belanda
    (2) munculnya kelompok buruh perkebunan
    (3) munculnya kaum pengusaha pribumi
    (4) munculnya alat transportasi kereta api

39. Pemerintahan letnan Gubernur Thomas Stamford Rafles (1811 - 1816) meninggalkan warisan yang berharga bagi bangsa Indonesia, yaitu …

    (1) Pelabuhan Ujung Kulon, Merak dan Surabaya
    (2) Kebun Raya Bogor
    (3) jalan raya Anyer-Panarukan
    (4) buku the History of Java

40. Kebudayaan Megalitikum di wilayah nusantara terungkap dengan ditemukannya berbagai peninggalan, antara lain …

    (1) menhir
    (2) dolmen
    (3) sarkofagus
    (4) arca

GEOGRAFI

*Gunakan **Petunjuk A** dalam menjawab soal nomor 41 sampai nomor 50*

41. Secara ekonomi, hal yang membedakan antara desa dan kota adalah sebagai berikut, *kecuali* …

    (A) Kegiatan ekonomi di perkotaan berubah lebih cepat.
    (B) Nilai tanah di perkotaan sangat tinggi.
    (C) Penduduk perkotaan tidak cepat berganti pekerjaan.
    (D) Jenis mata pencaharian di perkotaan lebih beragam.
    (E) Luas kepemilikan tanah di perkotaan relatif lebih sempit.

42. Pada peta tanpa skala, diketahui jarak A -B adalah 5 cm. Pada peta dengan skala 1 : 100.000, jarak yang sama adalah 20 cm. Maka skala peta A -B adalah …

    (A) 1 : 150.000
    (B) 1 : 200.000
    (C) 1 : 400.000
    (D) 1 : 600.000
    (E) 1 : 100.000

43. Tiga perairan besar yang mengelilingi benua Amerika adalah …

    (A) Samudera Pasifik, samudera Atlantik, dan laut Es Utara
    (B) Samudera Pasifik, samudera Hindia dan Laut Cina Selatan
    (C) Samudera Atlantik, laut Mediterania, dan laut Artik
    (D) Laut Es Utara, laut Artik dan laut Mediterania
    (E) Laut Artik, samudera Atlantik dan samudera Pasifik

44. Untuk mengetahui penyebab terjadinya longsor dan kecenderungan perluasannya, maka prinsip yang paling tepat untuk digunakan adalah prinsip …

    (A) pemahaman
    (B) persebaran
    (C) timbal balik
    (D) korologi
    (E) kuantitatif

45. Tumbuhan endemik di kawasan rawa di wilayah Paparan Sahul adalah …

    (A) kopi
    (B) sagu
    (C) cengkeh
    (D) kayu
    (E) tembakau

46. Faktor pembatas persebaran flora di pegunungan tinggi adalah …

    (A) sinar matahari
    (B) suhu udara
    (C) curah hujan
    (D) cuaca
    (E) elevasi

47. Pola sektoral yang digambarkan oleh Teori Sektoral terjadi karena pengaruh …

    (A) jenis kegiatan industri yang ada
    (B) kelas kegiatan industri
    (C) kelas permukiman
    (D) harga sewa tanah dan pola jaringan yang ada
    (E) kepadatan penduduk

48. Dampak negatif yang ditimbulkan karena hutan lindung dijadikan areal permukiman, *kecuali* …

    (A) sumber mata air hilang
    (B) rantai makanan terganggu
    (C) plasma nutfah hilang
    (D) berubahnya iklim mikro di daerah hutan lindung
    (E) turunnya limpasan air permukaan

49. 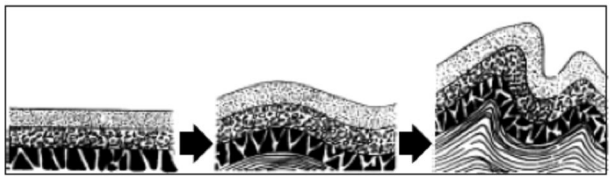

Dari peristiwa yang terdapat pada gambar di atas, akan dihasilkan …

(A) Slenk dan Horst
(B) Sinklinal dan Antiklinal
(C) Bukit dan Lembah
(D) Gunung dan Pegunungan
(E) Penebalan dan Penipisan lapisan bumi

50. Perhatikan gambar piramida penduduk di bawah ini!

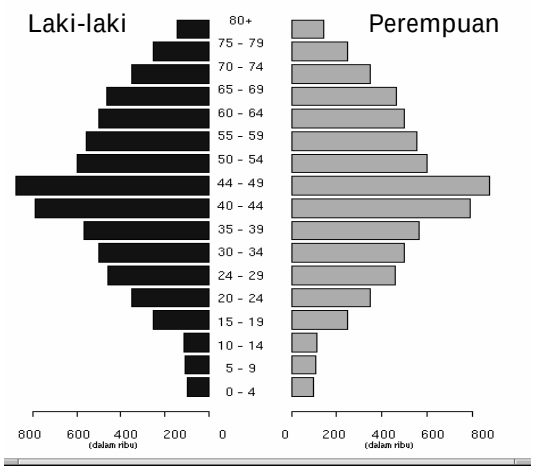

Berdasarkan gambar piramida penduduk *stasioner* di atas dapat disimpulkan bahwa jumlah penduduk yang berusia …

(A) belum produktif lebih besar dari yang berusia poduktif
(B) muda seimbang dengan penduduk usia tua
(C) tidak produktif sama dengan yang berusia produktif
(D) belum produktif sama dengan yang berusia produktif
(E) muda lebih banyak daripada usia tua

*Gunakan **Petunjuk B** dalam menjawab soal nomor 51 sampai nomor 54*

51. Negara yang kepadatan penduduknya tinggi adalah negara-negara yang berpenduduk terbanyak di dunia.

SEBAB

Kepadatan penduduk dihitung dari luas wilayah yang ditempati dibagi dengan jumlah penduduknya.

52. Struktur tanah berpengaruh terhadap sirkulasi udara di dalam tanah, yang sangat diperlukan untuk pernapasan akar tumbuh-tumbuhan.

SEBAB

Struktur tanah sangat berpengaruh terhadap daya serap air.

53. Tambak ikan pada citra satelit komposit warna sebenarnya (*true colour composite*) memiliki ciri-ciri: berwarna biru, terlihat petek-petak dengan ukuran besar dan berlokasi dekat dengan pantai.

SEBAB

Warna biru, petak ukuran besar dan lokasi dekat pantai merupakan unsur-unsur interpretasi dalam pengenalan objek tambak ikan dan sawah pasang surut.

54. Industri yang dikembangkan di negara-negara berkembang adalah industri padat karya.

SEBAB

Industri padat karya adalah industri yang ekstensif tenaga kerja.

*Gunakan **Petunjuk C** dalam menjawab soal nomor 55 sampai nomor 60*

55. Objek Formal Geografi adalah suatu metode atau pendekatan yang digunakan dalam mengkaji suatu masalah atau fenomena yang mencakup aspek …

    (1) keruangan
    (2) lingkungan
    (3) wilayah
    (4) waktu

56. Teori gravitasi yang digunakan untuk mengukur kekuatan interaksi antar wilayah dikembangkan oleh …

    (1) Sir Isaac Newton
    (2) Albert Losch
    (3) Toschi
    (4) Reilly

57. Menurut teori gravitasi, kekuatan interaksi antar wilayah ditentukan oleh …

    (1) jenis kebutuhan
    (2) jumlah penduduk antar tempat
    (3) waktu tempuh antar tempat
    (4) jarak antar tempat

58. Dampak yang dapat ditimbulkan dari gejala pemanasan global adalah …

    (1) areal gurun pasir menjadi bertambah luas
    (2) terjadi kenaikan permukaan air laut
    (3) kondisi cuaca / musim menjadi kurang stabil
    (4) terjadi fluktuasi produksi pertanian sehingga suplai bahan makanan terganggu

59. Pada foto udara bentuk penggunaan tanah sawah dapat dikenali dari …

    (1) petakan hampir seragam dibatasi oleh pematang
    (2) ronanya tergantung umur padi
    (3) tekstur seragam
    (4) pola petak-petak

60. Rona merupakan salah satu kunci interpretasi pada foto udara atau citra satelit yang menunjukkan tingkat kegelapan dan tingkat kecerahan objek yang dipengaruhi oleh …

    (1) karakteristik objek
    (2) pemrosesan emulsi
    (3) cuaca
    (4) besar kecilnya pori-pori tanah

IPS TERPADU

PENURUNAN JUMLAH PENUMPANG

Seiring dengan melemahnya nilai tukar rupiah terhadap dolar AS, jumlah penumpang angkutan udara tujuan dalam negeri (domestik) bulan September 2008 juga mengalami penurunan. Pada bulan September 2008 jumlah penumpang hanya 2,08 juta orang atau turun 25,52 persen dibanding bulan Agustus.

Jumlah penumpang tujuan luar negeri (internasional) juga mengalami penurunan sebesar 7,56 persen menjadi 621,7 ribu orang. Selama bulan Januari–September 2008 jumlah penumpang domestik mencapai 23,69 juta orang atau naik 6,51 persen, sebaliknya jumlah penumpang internasional mencapai 4,66 juta orang atau turun 1,82 persen dibanding periode yang sama tahun 2007.

Penurunan jumlah penumpang juga terjadi pada angkutan kereta api dan angkutan laut meski dengan jumlah persentase yang lebih rendah. Jumlah penumpang kereta api bulan September 2008 mencapai 15,88 juta orang, yang berarti turun 7,18 persen dibanding bulan Agustus 2008.

*Gunakan **Petunjuk A** dalam menjawab soal nomor 61 sampai nomor 63*

61. Naik turunnya jumlah penumpang domestik dan internasional sebagaimana diuraikan pada bacaan, secara geografis menjelaskan adanya gambaran tentang …

    (A) transportasi sebagai indikator pembangunan
    (B) transportasi sebagai indikator proses pembangunan
    (C) jarak sebagai kemudahan mencapai tujuan
    (D) jarak sebagai fungsi ekonomi
    (E) jarak sebagai fungsi sosial

62. Asumsikan bahwa semua angka dalam persentase pada bacaan di atas merupakan data dari suatu percobaan. Untuk mempermudah perhitungan, setiap nilai dari pengamatan dikali dengan 100 dan dikurangi 50, akibatnya …

    (A) simpangan kuartil menjadi 618,75
    (B) rata-rata nilai menjadi 931
    (C) median menjadi 678
    (D) jangkauan menjadi 2270
    (E) rata-rata nilai menjadi 920

63. Industri yang menjadi pokok pembahasan dalam bacaan di atas merupakan pasar …

    (A) persaingan monopolistik
    (B) persaingan sempurna
    (C) oligopsoni
    (D) monopoli
    (E) oligopoli

*Gunakan **Petunjuk B** untuk menjawab soal nomor 64*

64. Pesawat DC-9 milik maskapai penerbangan nasional *Garuda Airlines* pernah mengalami pembajakan pada tahun 1981 di Bangkok, Thailand.

    SEBAB

    Pemerintah Malaysia tidak mengizinkan pesawat tersebut mendarat di Penang.

*Gunakan **Petunjuk C** dalam menjawab soal nomor 65*

65. Kondisi mata uang Rupiah sebagaimana dikemukakan kalimat pertama dalam bacaan di atas dapat menyebabkan …

    (1) terjadinya defisit dalam neraca perdagangan
    (2) impor Indonesia menurun
    (3) jumlah uang beredar bertambah
    (4) ekspor Indonesia meningkat

PERTUMBUHAN SEKTOR PERTANIAN

Lesunya pasar pertanian dunia sebagai dampak krisis keuangan global akan memperlambat laju pertumbuhan sektor pertanian nasional. Berkaca pada realitas tersebut, Departemen Pertanian mengoreksi target pertumbuhan sektor pertanian 2009 dari 4,8 persen menjadi 4,2 persen.

Situasi saat ini tidak kondusif untuk meningkatkan pertumbuhan pertanian sesuai target. Hal itu mengingat ekspor sejumlah komoditas pertanian, seperti minyak sawit, mentah (CPO), getah karet, kopi, kakao, dan teh turun. Meski turun, tidak akan terlalu banyak karena komoditas pertanian selalu dibutuhkan. Hal ini diungkapkan oleh Menteri Pertanian seusai menandatangani kerjasama dengan Menteri Pertanian dan Perikanan Timor Leste.

Departemen Pertanian semula menargetkan pertumbuhan ekonomi sektor pertanian 2009 sebesar 4,8 persen. Dengan pertumbuhan sebesar itu, diharapkan sektor pertanian bisa menyerap tambahan tenaga kerja 800.000 orang atau naik menjadi 44,2 juta orang.

Begitu pula jumlah penduduk rawan pangan dapat ditekan 1 persen per tahun dan nilai tukar petani dapat ditingkatkan dari 110-115 pada tahun 2008 menjadi 115-120. Neraca perdagangan sektor pertanian diharapkan meningkat dari 12,41 miliar dolar AS menjadi 16,22 miliar dolar AS.

*Gunakan **Petunjuk A** dalam menjawab soal nomor 66 sampai ke nomor 70*

66. Negara yang disebut kata terakhir dalam alinea kedua bacaan di atas adalah provinsi Timor Timur ketika masih bergabung dengan RI. Wilayah ini bergabung dengan RI setelah ditandatanganinya Deklarasi Balibo pada tahun …

    (A) 1973
    (B) 1974
    (C) 1975
    (D) 1976
    (E) 1977

67. Pernyataan dari kalimat pertama pada bacaan, dalam pengetahuan Geografi merupakan konsep …

    (A) keterjangkauan
    (B) keterkaitan keruangan
    (C) interaksi dan interdependensi
    (D) diferensiasi area
    (E) lokasi

68. Setelah pertumbuhan sektor perekonomian dikoreksi, maka dibandingkan dengan sebelumnya penyerapan tenaga kerja tambahan sektor pertanian diperkirakan akan …

    (A) berkurang 14,29%
    (B) bertambah 14,29%
    (C) bertambah 12,5%
    (D) berkurang 12,5%
    (E) berkurang 10%

69. Diketahui sebuah bilangan berada pada interval nilai tukar petani pada tahun 2008. Bilangan tersebut habis dibagi 2 dan 7, maka bilangan yang dimaksud adalah …

    (A) 112
    (B) 114
    (C) 116
    (D) 118
    (E) 110

70. Komoditas yang dihasilkan oleh sektor yang dibahas dalam bacaan di atas …

    (A) memiliki permintaan yang inelastis
    (B) memiliki permintaan yang inelastis sempurna
    (C) memiliki permintaan yang elastis
    (D) merupakan barang inferior
    (E) merupakan barang bebas

KARET

Thailand, Malaysia, dan Indonesia yang tergabung dalam *International Tripartite Rubber Council*, sepakat bekerja sama menahan penurunan harga karet alam. Tiga negara ini memasok 70 persen dari 9,7 juta ton kebutuhan karet alam dunia. Kesepakatan Indonesia, Malaysia, dan Thailand dicapai dalam pertemuan khusus di Bangkok, Thailand.

Kesepakatan yang dibuat tiga negara penghasil karet alam itu dapat menahan harga karet di atas 2 dolar AS per kilogram. Krisis keuangan global telah membuat harga karet terus merosot. Pada bulan Juni, harga karet alam 3,25 - 3,50 dolar AS per kilogram, tetapi pada bulan Oktober hanya 1,50 dolar AS per kilogram.

Guna menahan penurunan harga karet, tiga negara mewujudkannya, antara lain, melalui skema manajemen suplai. Untuk mengendalikan suplai, disepakati peremajaan kebun karet dipercepat. Saat ini sudah dilakukan peremajaan terhadap 1.120.000 hektare kebun karet di tiga negara. Peremajaan akan ditingkatkan menjadi 1.690.000 hektare pada tahun 2009. Dengan peremajaan, diperkirakan suplai karet alam di pasar internasional pada tahun 2009 akan berkurang 215.000 ton.

*Gunakan **Petunjuk A** dalam menjawab soal nomor 71 sampai nomor 74*

71. Negara pertama yang disebut dalam bacaan di atas pada tahun 1954 menjadi anggota South Easth Asia Treaty Organization. Organisasi ini dibentuk dalam era …

    (A) perang dingin untuk membendung komunisme
    (B) perjuangan dalam bentuk revolusi agar tidak meluas
    (C) antikolonialisme
    (D) neoimperialisme agar memperoleh perlindungan dari negara-negara kapitalis
    (E) persaingan perdagangan antara negara-negara merdeka dan negara-negara kapitalis

72. Andaikata luas kebun peremajaan yang akan ditingkatkan pada tahun 2009 seperti terdapat dalam bacaan luasnya terbagi sama rata, maka skala peta yang sesuai untuk pengelolaannya adalah …

    (A) 1 : 50.000
    (B) 1 : 25.000
    (C) 1 : 5.000
    (D) 1 :10.000
    (E) 1 : 40.000

73. Jika 30% dari suplai tiga negara tersebut di atas disuplai dari Indonesia, maka total nilai ekspor Indonesia berdasarkan harga pada bulan Oktober adalah …

    (A) 10,185 miliar dolar AS
    (B) 4,365 miliar dolar AS
    (C) 3,0555 miliar dolar AS
    (D) 2,91 miliar dolar AS
    (E) 1,455 miliar dolar AS

74. Diketahui luas sebuah persegi dan trapesium masing-masing sama dengan luas kebun karet yang direncanakan untuk diremajakan pada tahun 2009. Jika tinggi trapesium sama dengan sisi persegi, maka jumlah sisi sejajar trapesium tersebut adalah …

    (A) 130 satuan panjang
    (B) 260 satuan panjang
    (C) 1.300 satuan panjang
    (D) 2.600 satuan panjang
    (E) 3.900 satuan panjang

*Gunakan **Petunjuk B** dalam menjawab soal nomor 75*

75. Terjadinya keadaan sebagaimana dikemukakan dalam kalimat pertama alinea ketiga pada bacaan di atas menyebabkan ekspor Indonesia atas komoditas tersebut menurun.

    SEBAB

    Bila penawaran suatu barang meningkat maka harga barang itu akan turun.